Matematyka. Liczebniki porządkowe.

Otocz pętlą piąty z kolei przedmiot.

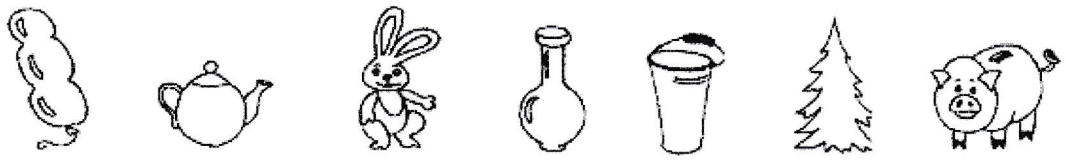

Ile jest kropek w czwartym kwadracie?


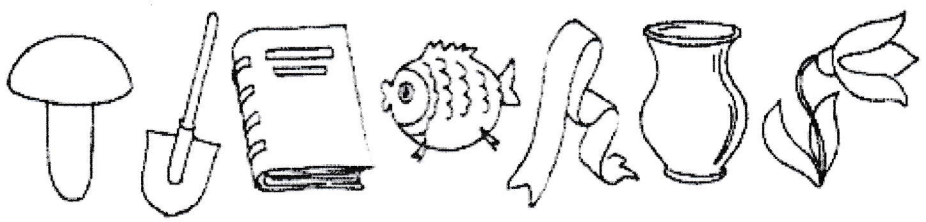
Połącz linią trzeci przedmiot z górnego rzędu z szóstym z rzędu dolnego.